5

tambilgi yayınları

Sosyal Bilgiler

SORU BANKASI

Premium

YAYINCI: Vip Tam Bilgi Yayınları Tic. Ltd. Şti. / tambilgiyayinlari.com

SERTİFİKA NO: 41466 **ISBN NO:** 978-625-7848-02-2

YAZAR: Yasin Yağlı

BASKI ve CİLT: KAREMAT MATBAACILIK

SERTİFİKA NO: 40944

MARKALAMA & KAPAK: Tayfun Öztürk / www.tayfunozturk.com

Kitapta yer alan tüm içeriklerin sorumluluğu yazarlarına aittir.

MOBİL OPTİK OKUMA UYGULAMAMIZI

App Store'dan İndirebilirsiniz

Google Play'den İndirebilirsiniz

Öneri ve Görüşleriniz İçin;

bilgi@tambilgiyayinlari.com

0532 415 70 89

5846 sayılı Fikir ve Sanat Eserleri Kanunu uyarınca bu kitabın her hakkı saklıdır ve **VİP TAM BİLGİ YAYINLARI TİC. LTD. ŞTİ**'ye aittir. Kitabın tamamının veya bir kısmının yayınevinin önceden yazılı izni alınmadan kısmen de olsa çoğaltılması, yayımlanması, internet ortamına aktarılması yasaktır.

İSTİKLÂL MARŞI

Korkma, sönmez bu şafaklarda yüzen al sancak;
Sönmeden yurdumun üstünde tüten en son ocak.
O benim milletimin yıldızıdır, parlayacak;
O benimdir, o benim milletimindir ancak.

Çatma, kurban olayım, çehreni ey nazlı hilâl!
Kahraman ırkıma bir gül! Ne bu şiddet, bu celâl?
Sana olmaz dökülen kanlarımız sonra helâl…
Hakkıdır, Hakk'a tapan, milletimin istiklâl!

Ben ezelden beridir hür yaşadım, hür yaşarım.
Hangi çılgın bana zincir vuracakmış? Şaşarım!
Kükremiş sel gibiyim, bendimi çiğner, aşarım.
Yırtarım dağları, enginlere sığmam, taşarım.

Garbın âfakını sarmışsa çelik zırhlı duvar,
Benim iman dolu göğsüm gibi serhaddım var.
Ulusun, korkma! Nasıl böyle bir imânı boğar,
'Medeniyet!' dediğin tek dişi kalmış canavar?

Arkadaş! Yurduma alçakları uğratma, sakın.
Siper et gövdeni, dursun bu hayâsızca akın.
Doğacaktır sana va'dettiği günler Hak'kın…
Kim bilir, belki yarın, belki yarından da yakın.

Bastığın yerleri 'toprak!' diyerek geçme, tanı:
Düşün altındaki binlerce kefensiz yatanı.
Sen şehit oğlusun, incitme, yazıktır, atanı:
Verme, dünyaları alsan da, bu cennet vatanı.

Kim bu cennet vatanın uğruna olmaz ki fedâ?
Şühedâ fışkıracak toprağı sıksan, şühedâ!
Cânı, cânânı, bütün varımı alsın da Hüdâ,
Etmesin tek vatanımdan beni dünyada cüda.

Ruhumun senden, ilâhi, şudur ancak emeli:
Değmesin mâbedimin göğsüne nâmahrem eli.
Bu ezanlar-ki şahâdetleri dinin temeli,
Ebedi yurdumun üstünde benim inlemeli.

O zaman vecd ile bin secde eder -varsa- taşım,
Her cerihamdan, ilâhi, boşanıp kanlı yaşım,
Fışkırır ruh-i mücerred gibi yerden nâ'şım;
O zaman yükselerek arşa değer belki başım.

Dalgalan sen de şafaklar gibi ey şanlı hilâl!
Olsun artık dökülen kanlarımın hepsi helâl.
Ebediyen sana yok, ırkıma yok izmihlâl:
Hakkıdır, hür yaşamış, bayrağımın hürriyet;
Hakkıdır, Hakk'a tapan, milletimin istiklâl!

Mehmet Âkif Ersoy

S.B.

Sosyal Bilgiler

ÜNİTE 1

BİREY VE TOPLUM 4

Sosyal Bilgiler Dersinden Öğrendiklerimiz 4
Hak Ve Sorumluluklarımız 8

ÜNİTE 2

KÜLTÜR VE MİRAS 16

Uygarlıkları Öğreniyorum 16
Çevremizdeki Güzellikler 24
Kültürel Zenginliğimiz 32

ÜNİTE 3

İNSANLAR, YERLER VE ÇEVRELER 38

Yeryüzü Şekilleri 38
İklimin İnsan Faaliyetlerine Etkisi 46
Nüfus Ve Yerleşme 54
Afetler Ve Çevre Sorunları 66

ÜNİTE 4

BİLİM, TEKNOLOJİ VE TOPLUM 76

Teknoloji Ve Toplum 76
Bilim İnsanlarının Ortak Özellikleri 80

ÜNİTE 5

ÜRETİM, DAĞITIM VE TÜKETİM 84

Çevremizdeki Ekonomik Faaliyetler 84

ÜNİTE 6

ETKİN VATANDAŞLIK 92

Halka Hizmet Veren Kurumlar 92
Yaşadığım Yerin Yönetimi 94
Temel Haklarımızı Öğrenelim 98

ÜNİTE 7

KÜRESEL BAĞLANTILAR 100

Yaşadığım Yerin Ülke Ekonomisine Katkısı 100
Ekonomik İlişkilerde Teknoloji 108
Ortak Mirasımız 110

CEVAP ANAHTARI 112

1. **Sinan:** Çevremdeki insanlara bilmedikleri bir yeri tarif etmeyi veya tarif edilen bir yeri nasıl bulacağımı krokiler sayesinde öğrendim.

Selim: Artık okul, hastane gibi devlet kurumlarında işlerimi yapabilmek için resmî kimliğimin gerektiğini biliyorum.

Fatih: İhtiyaçlarım için yaptığım harcamalardan kalan kısmı kumbarama atarak birikim yapıyorum.

Esma: Çevremdeki canlı varlıklar arasında mikroorganizmaların da olduğunu biliyorum.

Aşağıdaki öğrencilerden hangisi Sosyal Bilgiler dersinden farklı bir dersin kendine kazandırdıklarından bahsetmiştir?

A) Sinan B) Selim C) Fatih D) Esma

2. **Sosyal Bilgiler dersinin kişisel gelişimimize katkıları ile ilgili olarak aşağıdakilerden hangisi söylenemez?**

A) Eleştirel düşünebilmeyi öğretir.

B) Kendi kararlarımızı verebilmenin önemini kavratır.

C) İlgi, istek ve yeteneklerimizin farkına varmamızı sağlar.

D) Türkçemizi düzgün okuma ve yazabilme konusunda eğitir.

3. Sosyal Bilgiler; …… ile ilgili konular içeren bir derstir. Bu ders, bizim etkin ve sosyal bir vatandaş olmamıza katkı sağlar.

Yukarıdaki açıklamada boş bırakılan yere;

I. tarih,

II. coğrafya,

III. vatandaşlık

kavramlarından hangileri getirilebilir?

A) Yalnız I B) Yalnız II

C) I ve III D) I, II ve III

4. Yasin o gün erkenden uyandı. Annesine "Günaydın anneciğim." dedi. Annesi bakkaldan iki ekmek alıp gelmesini istedi. O da "Peki anneciğim." dedi. Bakkalda alışveriş yaparken de yine önce "Günaydın" dedikten sonra, nasılsınız, lütfen, teşekkür ederim gibi nezaket ifadeleri kullandı. Evde hep birlikte kahvaltı yaptıktan sonra da annesine "Eline sağlık." demeyi unutmadı.

Yukarıda metne göre Yasin arkadaşımızın;

I. sosyal hak,

II. sosyalleşme,

III. fiziksel gelişme,

IV. bir kalabalığa ait olma

süreçlerinden hangisinde başarılı olduğu söylenebilir?

A) I B) II C) III D) IV

5. Sosyal Bilgiler dersi, bilim ve teknolojinin insan hayatı üzerindeki olumlu ve olumsuz etkilerini öğrenmemizi sağlar.

Buna göre Sosyal Bilgiler dersinde başarılı bir öğrenciden hangi davranış beklenir?

A) Genel Ağ'ı daha çok bilgi edinme amaçlı kullanır.

B) Sosyal medya uygulamalarında çok fazla vakit geçirir.

C) Arkadaşlarının görüntülerini izinsiz olarak başkalarıyla paylaşır.

D) Sosyal medyada verilen her türlü haberin doğru olduğuna inanır.

6. Vatandaşların bağlı olduğu devlete karşı sorumlulukları olduğu gibi devletin de vatandaşlara sağladığı haklar vardır. Haklarını ve sorumluluklarını bilen ve bunlara göre hareket eden kişiler etkin birer vatandaştır.

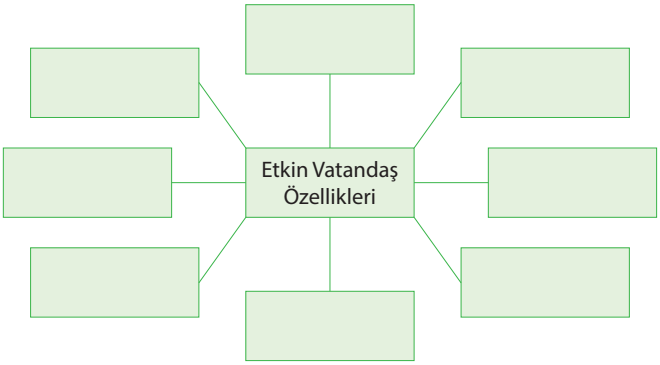

Buna göre, yukarıdaki şemada boş bırakılan yerlere aşağıdakilerden hangisi yazılamaz?

A) Sorumluluk bilinciyle hareket eder.

B) Haklarını bilir ve gerektiğinde kullanır.

C) Kısa sürede zengin olmak için her yolu dener.

D) Üretim yaparak ülke ekonomisine katkıda bulunur.

7. I.

Pazarda alışveriş yapan insanlar

II.

Toplu taşıma aracında seyahat eden insanlar

III.

5- E Sınıfı öğrencileri

Yukarıda verilenlerden hangileri bir grup olarak kabul edilebilir?

A) Yalnız I B) Yalnız III C) I ve II D) II ve III

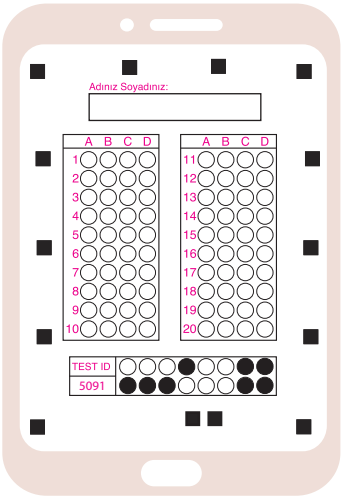

1.

Ailesi ile birlikte alışveriş yapan Sibel satın aldıkları bir ürünün son kullanma tarihinin geçmiş olduğunu fark eder. Hemen ailesini ve daha sonra mağaza görevlilerini uyarır. Mağaza müdürü ise acele ile ürünü raftan toplatarak satışını engeller ve Sibel'i ayrıca tebrik eder. Sibel de "asıl Sosyal Bilgiler dersi öğretmenime teşekkür etmelisiniz, bana bu konuyu o öğretti" der.

Yukarıda verilen olaydan yola çıkarak Sosyal Bilgiler dersinin;

I. bilinçli bir tüketici olabilme,
II. yapılan hatalara ve haksızlıklara göz yumabilme,
III. haklarımızın ve sorumluluklarımızın farkına varabilme

durumlarından hangileri ile kişisel gelişimimize katkı sağladığı <u>söylenemez</u>?

A) Yalnız I B) Yalnız II
C) I ve III D) II ve III

2. Sosyal Bilgiler,

- İnsanların ekonomik faaliyetleri hakkında bilgi edinmemizi, bu faaliyetlerin insan hayatındaki önemini kavramamızı sağlar.
- Ülkemizin diğer ülkelerle olan ekonomik, kültürel ve sosyal ilişkilerini öğrenmemizi sağlar.
- Yaşadığımız çevrenin coğrafi özelliklerini tanımamızı, insanlar ve doğal çevre arasındaki ilişkileri anlamamızı sağlar.

Verilen açıklamalar Sosyal Bilgiler dersinin;

I. tarih,
II. coğrafya,
III. ekonomi,
IV. vatandaşlık

konularından hangileriyle daha çok ilgilidir?

A) Yalnız I B) Yalnız IV
C) I ve IV D) II ve III

3. Günlük hayatta ülkemizde yaşanabilecek olan;

I. kara yolunda seyir hâlindeki bir aracın kaza yapması,
II. aşırı kar yağışı sonucunda çığ afetinin meydana gelmesi,
III. küresel ısınma nedeniyle ülke genelinde sıcaklıkların artması,
IV. bir ailenin iş değişikliği sebebiyle bir şehirden başka bir şehre taşınması

gibi olaylardan hangisi aynı anda daha fazla sayıda insanın hayatını etkileyebilir?

A) I B) II C)III D) IV

4.

Görseldeki Batman şehri önceleri küçük bir kasaba idi. Petrol madeninin keşfedilmesiyle birlikte etraftan göç aldı. Derken yeni yollar, konutlar, hastane, alışveriş merkezleri vb. yapıldı. Günümüzde ise Batman, kalabalık kentlerimizden biri haline gelmiştir.

Yukarıdaki metinde açıklanan süreçte Batman şehrinde;

I. çevre kirliliği,

II. konut sıkıntısı,

III. kent dışına göç,

IV. ulaşım-alt yapı sorunları

durumlarından hangisinin yaşandığı <u>söylenemez</u>?

A) I B) II C) III D) IV

5. COVID-19 (KOVİD-19), bulaşıcı bir solunum yolu hastalığıdır. Yeni tip corona virüsü salgını (Covid-19) tüm dünyayı etkilemeye devam ediyor. Akciğer hastalığına neden olabilen ve tedavi edilmediğinde ağır akut solunum yolu yetersizliği sendromu gibi hastalıklara yol açan bu hastalık yüzünden yüzbinlerce insan hayatını kaybederken, milyonlarca insan da salgından etkilendi. Virüsün kaynağı hakkında şimdiye kadar Wuhan'daki (Çin) hayvan pazarı gösterildi. Uzmanlar virüsün yarasalardan veya aracı başka bir hayvanla insanlara geçtiğini ileri sürüyor.

(Basından- 05 Mart 2020)

Yukarıdaki açıklamada, bir olayın çok boyutluluğunu incelerken cevaplanması gereken,

I. Olayın nedenleri nelerdir?

II. Olayın sonuçları nelerdir?

III. Olay ne zaman sona ermiştir?

IV. Olayın insanlara etkileri nelerdir?

sorulardan hangisinin yanıtı <u>bulunmamaktadır</u>?

A) I B) II C) III D) IV

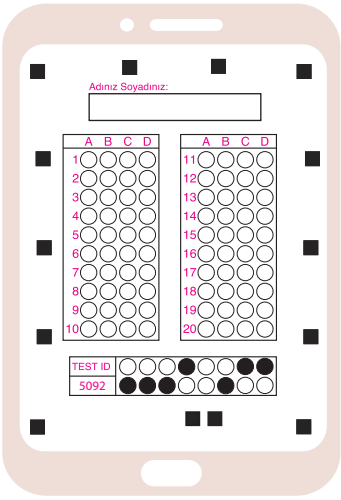

1.

- Sabah uyandığımız zaman ailemize "Günaydın." demek, kahvaltı bittikten sonra annemize "Eline sağlık." deyip teşekkür etmek, aile büyüklerimiz işe giderken onları güler yüzle uğurlamak aile içinde sosyalleşmeye örnektir.
- Okula gittiğimizde arkadaşlarımızla selamlaşmak, onların hatırını sormak, evden getirdiğimiz yiyecekleri arkadaşlarımızla paylaşmak okulda sosyalleşmeye örnektir.

Bu açıklamalara göre yapılan aşağıdaki yorumlardan hangisi <u>yanlıştır</u>?

A) Sosyalleşme, bireyin öz güvenini artırır.

B) Sosyalleşen bireyler kendi kararlarını kendisi alabilen kişiler hâline gelemezler.

C) Sosyalleşme kişilere ortak hareket edebilme ve iş birliği yapabilme becerileri kazandırır.

D) Sosyalleşme sürecini tamamlayan bireylerin toplum hayatına daha kolay uyum sağladığı ve hayatlarında daha mutlu olduğu söylenebilir.

2.

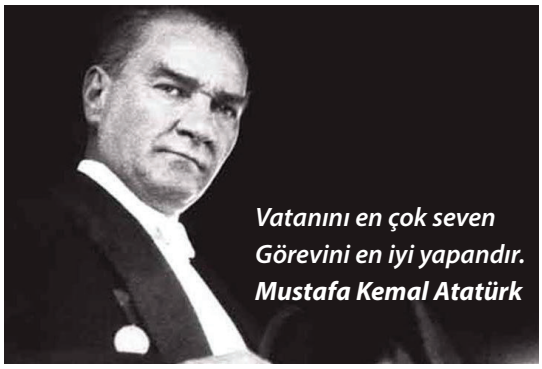

Mustafa Kemal Atatürk bu sözleri ile aşağıdakilerden hangisinin önemine dikkat çektiği söylenebilir?

A) Doğuştan kazanılan rollerin

B) Rollerin zaman içinde değişmesinin

C) Aynı anda birden fazla role sahip olmanın

D) Rollerin sorumluluklarını yerine getirmenin

3.

- Toplumu oluşturan insanlardan her birine ….I…..denir.
- Bireyin içinde yaşadığı toplumun bir üyesi olma sürecine ….II….denir.
- Ortak bir amaç için bir araya gelen, aralarında etkileşim olan, en az iki kişiden oluşan topluluğa ….III….denir.

Yukarıdaki açıklamalarda numaralandırılan boşluklara hangi kavramlar getirilmelidir?

	I	II	III
A)	sosyalleşme	grup	birey
B)	birey	sosyalleşme	grup
C)	grup	birey	sosyalleşme
D)	sosyalleşme	birey	grup

4.

Aile, toplumun en küçük birimi olarak kabul edilmektedir. Temel ihtiyaçlarımızı ailemizin yardımıyla karşılaşırız. Onlar sayesinde bebeklikten çocukluğa, çocukluktan yetişkinliğe geçeriz. Bu nedenle…….

Yukarıda verilen açıklamanın aşağıdaki cümlelerden hangisi ile tamamlanması doğru <u>olmaz</u>?

A) aile, katıldığımız ilk sosyal gruptur.

B) aileyi, içinde yer aldığımız en önemli grup olarak niteleyebiliriz.

C) birey olarak toplumun bir parçası olmayı bizlere ailemiz öğretemez.

D) beslenme ve barınma gibi fiziksel ihtiyaçlarımızla birlikte sevgi ve saygı gibi duygusal ihtiyaçlarımızı da ailemiz sayesinde karşılarız.

5. Toplumsal yarar sağlamak veya bir ürün üretmek amacıyla oluşturulmuş yapılara kurum adı verilir. Toplumda yaşayan bireyler, hizmet veren çeşitli kurumlar sayesinde ihtiyaçlarını karşılar.

Bu kurumlardan biri olan okul kurumu hakkında,

I. Okul, bireyleri toplumun sağlıklı bir üyesi hâline getiren ve bireyin sosyalleşmesini sağlayan önemli bir kurumdur.

II. Okul çalışanlarıyla kurduğumuz diyaloglar,öğretmenlerimizle iletişimimiz ve okul arkadaşlarımızla ilişkilerimiz toplum hayatına uyum sağlamamıza yardımcı olmaz.

III. Okulda öğrencilerin sosyalleşmesine katkı sağlayan spor takımları, resim ve müzik kulübü gibi bazı gruplar vardır.

yargılardan hangileri yanlış olur?

A) Yalnız I B) Yalnız II C) I ve III D) II ve III

6. Bireylerin sosyalleşmesinde ve toplumsal hayata uyum sağlamasında etkili olan diğer bir grup, akrabalardır.

Buna göre akrabalarımız ile ilgili olarak aşağıdakilerden hangisini söylemek yanlış olur?

A) Akrabalarımız; dede, babaanne, anneanne, amca, dayı, hala, teyze vb. yakınlarımızdır.

B) Ailemizden sonra en büyük destekçilerimizin akrabalarımız olduğunu söyleyebiliriz.

C) Sıkıntılarımızı akrabalarımızla paylaşır, yeri geldiğinde onlardan yardım isteriz.

D) Yalnızca bayramlarda ve özel günlerde akrabalarımızla bir arada olur, sohbet ederiz.



1.

Merhaba arkadaşlar. Benim adım Tuğba. Şehit Kubilay İlköğretim Okulu 5 / A sınıfı öğrencisiyim. Okulda sağlık kulübü üyesiyim. Ben aynı zamanda bir ablayım. Küçük kardeşimi çok seviyorum. Dedem beni her zaman '' şeker torunum '' diyerek sever. Bu arada kostümümden tahmin edebileceğiniz gibi en büyük hayalim gelecekte iyi bir doktor olmak.

Tuğba'nın açıklamasından yola çıkarak aşağıdaki yargılardan hangisine ulaşamayız?

A) Bireyin bir grup içinde farklı rolleri olabilir.

B) Bireyin bir kurum içinde farklı rolleri olabilir.

C) Bir birey yaşantısı boyunca hep aynı rolü üstlenir.

D) Rollerimizin bazılarını kendi isteğimiz ve çabalarımızla elde ederiz.

2.

Bazı rollerimiz vardır ki bunlara isteğimizle çalışarak, başarı göstererek sonradan sahip oluruz. Bazı rollerimize ise doğuştan sahip oluruz.

Buna göre bir çocuğun üstlenebileceği aşağıdaki rollerden hangisi diğerlerinden farklı olarak sınıflandırılabilir?

A) Kardeş olmak

B) Sınıf başkanı olmak,

C) Takım kaptanı olmak

D) Futbol kulübü üyesi olmak

3.

Biz çocuklar küçük yaşlardan itibaren çevremizde arkadaşlar ediniriz. Arkadaşlarımızla oyunlar oynayarak hoşça vakit geçiririz.

Yaşamımız boyunca içinde bulunduğumuz gruplardan biri olan arkadaşlık hakkında aşağıdakilerden hangisi söylenemez?

A) Arkadaş grubu, toplum hayatına katılmamızı kolaylaştırmaz.

B) Arkadaşlarımızla oynadığımız oyunlar sayesinde birlikte yaşamanın ve paylaşmanın güzelliğini fark ederiz.

C) Hep birlikte oyunlar oynadığımız, zamanı paylaştığımız, hoşça vakit geçirdiğimiz arkadaşlarımızla bir grup oluştururuz.

D) Arkadaş grubumuz içerisindeki üzerimize düşen görev ve sorumlulukları yerine getirmeliyiz.

4.

Birey olarak üyesi olduğumuz grup ve kurumlarda çeşitli rollerimiz vardır. Bireyin ait olduğu grup veya kurumlarda üstlendiği görevlere "rol" denir.

Buna göre "rol" **kavramı hakkında aşağıdakilerden hangisi söylenemez?**

A) Rollerimizin bazılarını kendi isteğimiz ve çabalarımızla elde ederiz.

B) İçinde bulunduğumuz role uygun davranışlar göstermemiz gerekmez.

C) İnsanların hayatları boyunca içinde bulundukları grup ve kurumlardaki rolleri zamanla değişebilir.

D) Bireylerin içinde bulundukları rollerle birlikte kendilerinden beklenen davranışlar da değişmektedir.

Sevgili öğrenciler, ben Dr. Reyhan Aydoğdu. Bu yıl mesleğimde 23. yılımı doldurdum. Ancak halen bir öğrenciyim. Uzman doktor olabilmek için mesleki eğitimler alıyorum. Düşünüyorum da yıllar geçtikçe hayatımızda pek çok şey değişiyor. Bu değişimden toplumsal rollerimiz de etkileniyor. Yıllar evvel ben de sizin gibi evimde annemin ve babamın evladı, dedelerimin torunu idim. okula başladıktan sonra sınıfımızdaki benim gibi pek çok öğrencinin arkadaşı olmuştum. O yıllarda kardeşimin dünyaya gelmesi ile abla olmayı da çok sevmiştim. Bugün hastanede insanların hayatını kurtarmak için çalışan bir doktor, evimde çocuklarımın annesiyim. Aileme karşı olarak görevlerimi ve sorumluluklarımı en iyi şekilde yerine getirmeye çalışıyorum.

5-6 ve 7. Soruları parçaya göre çözünüz.

5. Parçaya göre Reyhan Hanım'ın halen sahip olduğu roller arasında aşağıdakilerden hangisi <u>yer almaz</u>?

A) Evlat B) Anne C) Öğrenci D) Büyükanne

6. Reyhan Hanım'ın zamanla değişen rollerinden yola çıkarak aşağıdaki yargılardan hangisine <u>ulaşılamaz</u>?

A) Bir kişi aynı anda birden fazla rol üstlenebilir.

B) Toplumun küçük bir modeli olan ailemizin içinde yalnızca bir rol sahibi olabiliriz.

C) Aile ve akraba grupları içerisindeki rollerimizi dünyaya geldiğimiz andan itibaren kazanırız.

D) İnsanlar, hayatları boyunca içinde bulundukları grup ve kurumlarda çeşitli roller üstlenirler.

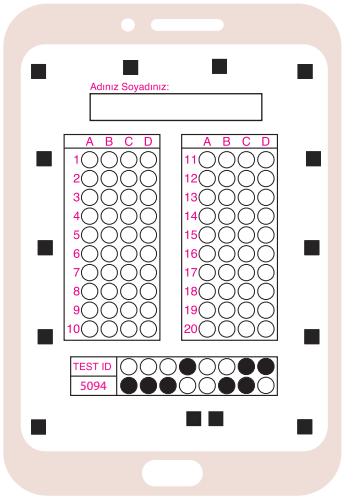

7. Reyhan Hanım'ın üstlendiği rollerden hangisi, eğitim öğretim hayatını tamamladıktan sonra kazandığı bir mesleki roldür?

A) Eş B) Torun C) Doktor D) Arkadaş

1.

I. Evimizi temiz ve düzenli tutmak, ev işlerini yaparken aile büyüklerimize yardımcı olmak, aile bireylerine sevgi ve saygı göstermek sorumluluklarımızdan bazılarıdır.

II. Okulla ilgili çalışmaları zamanında ve eksiksiz yapmak, okul eşyalarını özenli bir şekilde kullanmak, okulun ortak bir yaşam alanı olduğunu bilerek hareket etmek, okul kurallarına uymak da sorumluluklarımız arasındadır.

III. Sağlıklı ve dengeli beslenmek, kişisel temizliğimizi yapmak, zamanında ve yeterince uyumak kendimize karşı sorumluluklarımıza örnektir.

IV. Ders esnasında gürültü yapmamak, öğretmenimizi dikkatli dinlemek, konuşmadan önce de izin istememiz gerekli-dir.

Yukarıda verilen cümlelerden hangisi bir bireyin özellikle kendine karşı olan sorumlulukları arasındadır?

A) I B) II C) III D) IV

2.

"Okulda eğitim öğretim hizmetlerinden faydalanmak hakkımız, ders çalışmak ise sorumluluğumuzdur."

Bu açıklamadan yola çıkarak aşağıdakilerden hangisine ulaşılabilir?

A) Bazı rollerimiz hayat boyu devam eder.

B) Rolümüzün sorumlulukları yaşımız ilerledikçe değişir.

C) Yaşımız ilerledikçe daha az sorumluluk sahibi oluruz.

D) Sorumluluklarımız, üstlendiğimiz rollerimizin gereklerini yerine getirmeyle ilgilidir.

3.

Merhaba arkadaşlar! Ben Emre. Bu gördüğünüz de benim çalışma masam. Ödevlerim bittikten sonra masamı toparlayıp düzenlemek, temiz tutmak benim sorumluluklarımdandır. Derslerime düzenli ve planlı çalışırım. Ödevlerimi eksiksiz ve zamanında yaparım. Düzenli olarak kitap okurum. Okula her gün zamanında giderim. Asla geç kalmam. Çantamı akşamdan hazırlarım. Arkadaşlarımla beraber sınıfımızı temiz tutarız. Okul kurallarına da sıkı sıkıya uyarız.

Bu açıklamasından yola çıkarak Emre arkadaşımız hakkında,

I. Sahip olduğu hakların farkında olmayan bir bireydir.

II. Düzenli ve planlı olduğu için zamanı verimli kullanmaktadır.

III. Derslerinde başarılı olma ihtimali çok düşük olan bir öğrencidir.

IV. Katıldığı gruplardaki rollerinin gerektirdiği görev ve sorumluluklarını yerine getirir.

yargılarından hangileri doğru olur?

A) Yalnız I B) I ve II

C) II ve IV D) III ve IV

4. **Aşağıda verilen olaylardan hangisinde daha fazla sayıda birbirini tanımayan insanın etkilendiği söylenebilir?**

A) Fatih'in yaşadığı kentte deprem olması

B) Ali'nin ailesiyle birlikte piknik yapması

C) Ceren'in kalemini okulda unutması

D) Melih'in yaşadığı ilçede arıza nedeniyle su kesintisinin yaşanması

5.

Merhaba arkadaşlar! Ben Aleyna. Geçen hafta çok ateşlendim. Babam beni semtimizdeki hastanenin acil servis kısmına götürdü. Burada benimle çok güzel ilgilendiler. Tahliller yapıldı, filmler çekildi. Çıkışta babama ne kadar ücret ödediğini sordum. Babam gülümsedi ve bana " kızım bu bizim vatandaş olarak hakkımızdır" dedi. Daha sonra, gecenin bir yarısı açık olan nöbetçi eczaneden yine tek kuruş ücret ödemeden ilaçlarımızı aldık. Ancak bu ilaçları doktorun önerdiği şekilde almak benim sorumluluğumda. Yoksa iyileşemezmişim.

Aleyna arkadaşımızın anlattıklarından yola çıkarak;

A) Bireylerin ait oldukları grup veya kurumlarda çeşitli hakları vardır.

B) Sorumluluk, bireylerin yaptığı davranışların sonuçlarını üstlenmemesidir.

C) Bireyler toplum içinde üzerlerine düşen sorumlulukları yerine getirmekle yükümlüdür.

D) Haklarımızı kullanırken yerine getirmemiz gereken bazı görev ve sorumluluklarımız da vardır.

6.

Aksaray'da meyve bahçesinde yevmiyeli olarak çalışırken ziyarete gelen Vali Hamza Aydoğdu'ya maddi imkansızlıklar nedeniyle eğitimine devam edemediğini söyleyen Ayşenur Göktaş, gözyaşlarını tutamadı. Bunun üzerine Vali Hamzaoğlu, "Ağlama beni de ağlatacaksın. Kız çocukları gidecekler, merkezde yurtta kalacaklar. Pansiyon giderlerini de biz karşılayacağız" diyerek, Göktaş'a yardım edeceğini söyledi. Güzel haberi alan Ayşenur, ''Annem ve ben çok sevindik. Annem beni okutmak istiyordu ama okutamamıştı. Devlet bizim elimizden tuttu. Valimize teşekkür ediyorum" dedi. https://haberdairesi.com. 11.07.2020

Yukarıda verilen Genel Ağ haberinde anlatılan olay ile ilgili olarak aşağıdakilerden hangisi <u>söylenemez</u>?

A) Her çocuğun, çocuk haklarından yararlanmasına gerek yoktur.

B) Okul çağına gelmiş çocukların okula gönderilmemesi durumunda çocukların eğitim hakları ihlal edilir.

C) Ülkemizde devletin çeşitli kurumları, çocuk haklarının ihlallerinin önlenmesi adına çeşitli tedbirler almaktadır.

D) Çocuk haklarının korunması ve ihlallerin önlenmesi için kamu kurumlarına, sivil toplum kuruluşlarına ve çocuk haklarına duyarlı insanlara görevler düşmektedir.



1. Hasan yaz tatilinde Anadolu uygarlıklarına ait eserlerin bulunduğu müzelerden birkaçını ailesiyle birlikte ziyaret etti.

Buna göre Hasan ve ailesinin aşağıdaki tarihi eserlerden hangisini görme imkanı bulamadıkları söylenebilir?

A)

Hitit Geyik Heykeli

B)

Urartu Aslan Heykeli

C)

Mısır Firavun Mumyası

D)

Frig Kralı Midas'ın Masası

2. Örneğin, kazılarda madenlerden yapılmış eserlerin bulunması o bölgede yaşamış uygarlıkların maden işlemeciliğinde ileri olduklarını, saban kalıntılarının bulunması ise tarıma önem verdiklerini göstermektedir. Bu eserler çeşitli müzelerde sergilenmektedir.

Yukarıda verilen metinden yola çıkarak aşağıdaki yargılardan hangisine <u>ulaşılamaz</u>?

A) Müzelerde daha çok yazının başladığı dönemden kalma eserler bulunur.

B) Müzelerde bulunan eserlerin çoğu kazı çalışmaları sonucunda ortaya çıkarılmıştır.

C) Müzeleri ziyaret ederek geçmiş dönemlerde yaşamış uygarlıklardan günümüze ulaşan eserleri görebiliriz.

D) Müzelerde sergilenen eserler incelendiğinde eserin çıktığı bölgede geçmişte yaşamış insan topluluklarıyla ilgili fikir sahibi olunabilir.

3. Uygarlık kavramı bir ülkenin veya bir toplumun maddi ve manevi varlıklarını; düşünce, sanat, bilim ve teknoloji ürünlerinin tümünü ifade eder. Anadolu ve Mezopotamya bölgelerinde geçmişte birçok uygarlık yaşamıştır.

Bu durumun sebebi Anadolu ve Mezopotamya bölgelerinin hangi özelliği <u>olamaz</u>?

A) Su kaynaklarının bol olması

B) İklim şartlarının uygun olması

C) Verimli tarım arazilerinin olması

D) Ortalama yükseltilerinin fazla olması

4.

Anadolu'da Kurulan Uygarlıklar					Mezopotamya'da Kurulan Uygarlıklar		
Hititler	Frigler	İyonlar	Urartular	Sümerler	Lidyalılar	Babiller	Asurlar
MÖ	MÖ	MÖ	MÖ	MÖ	MÖ	MÖ	MÖ
2000-700	122-676	1200-546	900-600	3500-2000	700-547	2105-338	2000-612
1	2	3	4	5	6	7	8

Yukarıda verilen tablonun doğru olabilmesi için hangi iki uygarlığın yer değiştirmesi gerekir?

A) 1 ve 2 B) 3 ve 4 C) 5 ve 6 D) 7 ve 8

5. Anadolu'nun ilk uygarlıklarından biri olan Hititler, İç Anadolu'da Kızılırmak Nehri çevresinde kurulmuştur. Başkenti Hattuşaş'tır (Çorum yakınları).

Bu uygarlık hakkında aşağıdakilerden hangisi <u>söylenemez</u>?

A) Tek tanrılı bir dine inanılırdı.

B) Devleti, askerî ve dinî yetkileri olan kral yönetirdi.

C) Kralın en önemli yardımcısı Tavananna adı verilen kraliçeydi.

D) Devlet yönetiminde önemli işlerin karara bağlandığı bir meclis bulunmaktaydı.

6.

Mezopotamya, Yunancada iki nehir arası anlamına gelmektedir.

Görseldeki haritaya göre, Güneydoğu Toros Dağları'ndan başlayarak güneyde Basra Körfezi'ne kadar uzanan bu alan;

I. Nil,

II. Fırat,

III. Dicle,

IV. Amazon

Nehirlerinden hangi ikisi arasındaki bölgeyi kapsamaktadır?

A) I ve II B) I ve III C) II ve III D) III ve IV



1. Aşağıda verilen tarihi eserlerin ait olduğu medeniyetlerin kurulduğu yerlerde günümüzde bulunan il merkezleri dikkate alındığında;

I.

Lidyalılar döneminden kalma para,

II

Frigler döneminden kalma bir fibula,

III.

Hititlerden kalma Güneş Heykeli

hangi illerde yapılan kazılarda ortaya çıkartılmış olacağı söylenebilir?

	I	II	III
A)	Ankara	İzmir	Çorum
B)	İzmir	Çorum	Ankara
C)	Çorum	Ankara	İzmir
D)	İzmir	Ankara	Çorum

2.
- Fenike alfabesinin batıya taşınmasını sağlayarak miladi takvimin oluşturulmasına katkıda bulunmuşlardır.
- Mezopotamya ile Anadolu arasında ticaret yapmak amacıyla karum adı verilen ticaret merkezleri kurmuşlardır.
- Tarihte ilk anayasa olarak kabul edilen Hammurabi Yasalarını yapmışlardır.

Yukarıda verilenler arasında hangi uygarlık ile ilgili bir bilgi bulunmaz?

A) İyonlar B) Babiller C) Sümerler D) Asurlar

3.

Tarihi çağlarda bazı uygarlıkların mezarlarını görseldeki gibi oda biçimde yapıp içine günlük hayatta kullanılan eşyalar koymaları aşağıdakilerden hangisini gösterir?

A) Mimaride ilerlemiş olduklarını

B) Ölümden sonra yaşam inancının olduğunu

C) Çok tanrılı bir dini inanışa sahip olduklarını

D) Başka kültürlerden etkilendiklerini

4. İyonlarda demokratik bir yönetim anlayışı vardı. Bu yönetim anlayışının sağladığı özgür düşünce ortamı İyonların bilim, astronomi, sanat, tıp ve felsefe alanında ilerlemelerine zemin hazırlamıştır.

Bu dönemde yaşamış;

I. Thales (Tales),

II. Pythagoras (Pisagor),

III. Herodotus (Heredot)

gibi bilim insanlarından hangileri önemli çalışmalar yapmıştır?

A) Yalnız I B) I ve II C) II ve III D) I, II ve III

5.



MÖ 3000'lerde medeniyetlerden birinde görseldeki hiyeroglif adı verilen resim yazısı kullanılmaya başlandı. Hiyeroglifteki semboller bazen nesneyi temsil ettiği gibi bazen de bir sesi temsil ediyordu. Örneğin, bir çift bacak, gitmek; bir çift göz, görmek anlamına geliyordu. Hiyeroglifte yazılar sağdan sola, soldan sağa ya da yukarıdan aşağıya doğru yazılıyordu. Mezopatamya'nın ağır kil tabletlere karşın bunlar papirüs bitkisinden elde ettikleri ve papirüs adını verdikleri bir tür kâğıt kullanıyorlardı. Papirüsler üzerine farklı renkte mürekkepler kullanarak fırça ve tüylerle yazı yazıyorlardı.

Metinde açıklanan medeniyet aşağıdakilerden hangisi olabilir?

A) Mısırlar B) Sümerler C) Urartular D) İyonlar

6.



"Benim ismim Ludingirra. Ziggurat dediğimiz yedi katlı bu binada görev yapıyorum. Biz bu binanın üst katlarını gözlemevi, ibadethane ve eğitim merkezi olarak kullanıyoruz. Daha geniş olan alt katlarını ise depo olarak kullanıyoruz. Bizler Mezopotamya'da çok verimli topraklara sahip olduğumuzdan tarımla uğraşıyoruz. Ürettiğimiz ürünleri zigguratlarda muhafaza ediyoruz. Buradaki buğday çuvallarının karışmaması için birtakım işaretler kullandık. Zamanla kullanılan işaretler kilden yapılan tabletler üzerine aktarıldı. Böylece yazı icat edilmiş oldu."

Bu kişi hangi uygarlıkta yaşamıştır?

A) Hititler B) Sümerler C) Urartular D) Lidyalılar

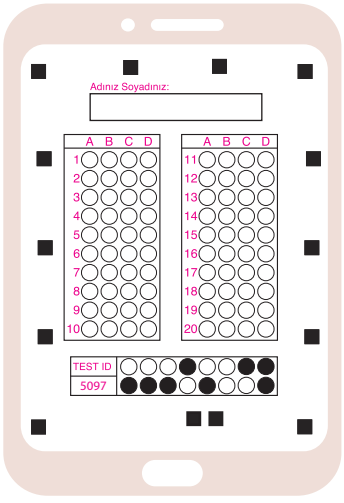

1.

I. Mezopotamya uygarlıklarının insanlığa bırakmış olduğu en önemli miras yazının bulunmasıdır (Sümerler).

II. Bu sayede bilgi ve kültürün küresel bazda aktarılması kolaylaşmış, toplumlar arası etkileşimde önemli aşamalar kaydedilmiştir.

III. Tarım, bölgede kurulan medeniyetler için oldukça önemli bir yere sahiptir.

IV. Bölgenin engebeli arazilerden oluşması, önemli göç ve ticaret yolları üzerinde bulunmasına ve farklı kültürlerin bu bölgede yaşamasına neden olmuştur.

Yukarıda verilen numaralandırılmış cümlelerden hangisinde bir <u>hata</u> yapılmıştır?

A) I B) II C) III D) IV

2.

Görseldeki haritada, tarihteki ilk ticaret yolu olan Kral Yolu gösterilmiştir.

Haritaya göre Kral Yolu hakkında aşağıdakilerden hangisi <u>söylenemez</u>?

A) Kral Yolu'nda daha çok deniz taşımacılığı yapılmaktaydı.

C) Lidyalıların başkenti Sard'tan Mezopotamya'ya kadar uzanmaktaydı.

C) Lidyalılar, Kral Yolu sayesinde ticarette merkez konumuna gelmişlerdi.

D) Kral Yolu, Doğu ile Batı arasında ticaretin gelişmesine katkı sağlamıştı.

3.

Hititler, Kuzey Suriye topraklarına hakim olmak için dönemin güçlü devletlerinden olan Mısır Uygarlığıyla mücadele etmişlerdir. Mısırlılarla Hititler arasında yıllarca süren savaş sonucunda görseldeki Kadeş Antlaşması imzalanmıştır (MÖ 1280).

Bu antlaşma hakkında aşağıdakilerden hangisi <u>söylenmez</u>?

A) Yazının bulunmasından önceki döneme aittir.

B) İnsanlık tarihinin ilk yazılı antlaşması olarak bilinir.

C) Bu antlaşmayla birlikte savaşlardan sonra antlaşma yapma uygulaması başlamıştır.

D) Antlaşma metnini içeren kil tablet 1906 yılında Boğazköy'de yapılan kazılar sonucu bulunmuştur.

4.

Görselde tarihte ilk icat edilen para kalıntıları verilmiştir. Paranın icadı, ticari hayatta kullanılan takas (değiş-tokuş) usulünü sona erdirmiştir.

Açıklamada verilen gelişme ilk olarak hangi medeniyette ortaya çıkmıştır?

A) Frigler B) Hititler

C) Lidyalılar D) Urartular

5.

Friglerin yaptığı fibula denen görseldeki çengelli iğne, günümüzde kullanılan çengelli iğnelerin tarihteki ilk örneği olarak kabul edilir.

Bu bilgiden yararlanarak Frigler hakkında aşağıdakilerden hangisi söylenebilir?

A) Çok tanrılı bir din anlayışları vardı.

B) Geçimlerini tarım ve hayvancılıkla sağlarlardı.

C) Maden işçiliğinde dönemin oldukça ilerisinde çalışmalar yapmışlardır.

D) Kralları ve soylu kişiler için tepe görünümlü mezarlar inşa etmişlerdir.

6.

Görseldeki haritada Sakarya Irmağı'nın çevresinde kurulan Frigya medeniyeti gösterilmiştir.

Bu haritaya göre, Friglerin başkenti olan Gordion şehri günümüzde hangi şehrimizin sınırları içerisinde kalmaktadır?

A) Sivas

B) Çorum

C) Ankara

D) Antalya

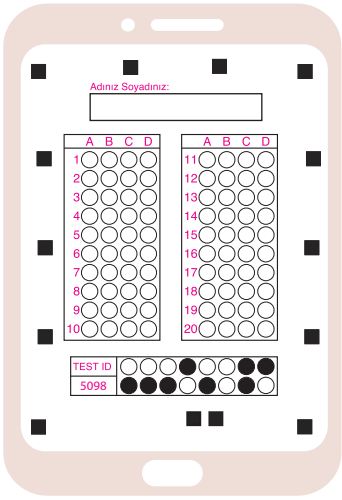

1.

Hipokrates öğrencileriyle birlikte bir doktorun nasıl davranması ve düşünmesi gerektiğiyle ilgili bir kılavuz hazırlamıştır. Görseldeki gibi yeni mezun olan doktorlar, günümüze kadar değiştirilerek uyarlanan bir meslek yemini ederler. Bu yeminin kaynağı Hipokrates ve öğrencilerinin doktorluk mesleğiyle ilgili koyduğu temel ilkelerdir. Adı da Hipokrates yeminidir.

Verilen bilgiye göre, bir İyon bilim insanı olan Hipokrates (Hipokrat), hangi alanda önemli çalışmalar yapmıştır?

A) Tıp
B) Felsefe
C) Matematik
D) Astronomi

2.

- Ay yılı esasına dayanarak takvim hazırladılar.
- Çivi yazısını icat ederek insanlık tarihine önemli katkılar sağladılar.
- Bir üçgenin iç açılarının toplamının 180 derece olduğunu hesapladılar.
- Günlük yaşantımızın önemli bir parçası olan tekerlek de onlar tarafından icat edildi.

Verilen bilgiler aşağıdaki Mezopatamya medeniyetlerinden hangisine aittir?

A) Akadlar
B) Asurlar
C) Babiller
D) Sümerler

3.

Günümüze ulaşan birçok Urartu eseri veya kalıntısı mevcuttur. Bunun en güzel örneği de Urartular'dan kalma görseldeki Van Kalesi'dir.

Bu bilgiden yola çıkarak Urartuların hangi konuda daha ileri düzeyde oldukları söylenebilir?

A) Ticaret
B) Taş işçiliği
C) Maden işlemeciliği
D) Tarım ve hayvancılık

4.

Mezopotamya'nın kuzeyinde kurulan bir uygarlıktır. Başkenti Ninova'dır. Krallıkla yönetilirlerdi. Sümerlerden öğrendikleri çivi yazısını Anadolu'ya getirerek Anadolu uygarlıklarının yazı ile tanışmalarını sağladılar. Mezopotamya ile Anadolu arasında ticaret yapmak amacıyla karum adı verilen ticaret merkezleri kurdular. Bunların en önemlisi günümüzde Kayseri'de görseldeki kalıntıları bulunan Kültepe'dir.

Metinde açıklanan Mezopatamya medeniyeti aşağıdakilerden hangisidir?

A) Asurlar
B) Babiller
C) Sümerler
D) Hititler

5.

Kültepe Kazı Heyeti Başkanı Prof. Dr. Fikri Kulakoğlu, 1948'de başlatılan sistemli kazılarda bugüne kadar 23.500 yazılı kil tablet bulunduğunu ve bu özel koleksiyonun 2014'te UNESCO Dünya Miras Listesi'ne kaydedildiğini belirtti. Kil tabletlerden, 4.000 yıl önce Anadolu'da kadınların da ticaretle uğraştığının belirlendiğini belirten Kulakoğlu, şöyle devam etti; "Ticaret yapan Anadolulu insanların içinde kadınların da yer alması çok önemli. Erkekler tabii ki ticaret yapıyor, Asur'dan gelen tüccarlar ticaret yapıyor ama onların dışında bir de kadınlar var. Bu kadınlar iyi ticaret yapabilen kadınlar. Hatta birinin, burada alacağını tahsil edemediği için bin kilometre mesafedeki Asur şehrine kadar gidip hakkını aradığını, mahkemeye çıktığını biliyoruz. Yani 4 bin yıl önce Anadolu kadınının, hakkını aramak için Asur'a gittiğini bu tabletlerden öğreniyoruz. Hatta kraliçeler ticarette, devlet antlaşmalarında etkin. Bir antlaşmayı onaylamak için kralın mührü yetmiyor, kraliçenin de mührü gerekiyor. https://arkeofili.com

Görselde verilen Genel Ağ haberinden yola çıkarak Asurlar hakkında aşağıdakilerden hangisi <u>söylenemez</u>?

A) Ticaretle uğraşmışlardır.

B) Yönetim şekli cumhuriyettir.

C) Kadın, toplum içinde de etkin ve söz sahibidir.

D) Kraliçe toplumda ve yönetimde eşit haklara sahiptir.

6.

I. Sümerler, Mezopotamya'da kurulmuş ilk uygarlık olarak bilinir.

II. Site adı verilen şehir devletleri hâlinde yaşadılar.

III. Ülkeyi Patesi adı verilen rahip krallar yönetirdi.

IV. Sümerler, ziggurat denen tapınakları ibadet dışında; depo, okul ve rasathane olarak da kullandılar.

Yukarıda verilen numaralandırılmış cümlelerden hangisinde bir <u>hata</u> yapılmıştır?

A) I B) II C) III D) IV

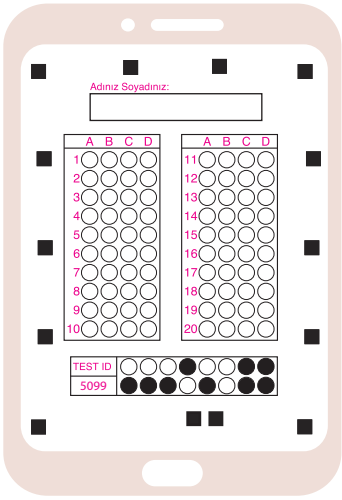

1.



Asur tüccarlarına ait olan görseldeki tabletler, Anadolu'da yazılı dönemin ilk örnekleridir. Dünya'nın ilk kütüphanesini kuran Asurlar, bu kütüphanede görseldeki gibi kil tabletlere yazılmış önemli eserleri bir araya toplamışlardır.

Buna göre Asurların hangi yazıyı kullandıkları söylenebilir?

A) Çivi yazısı
B) Latin yazısı
C) Fenike yazısı
D) Hiyegrolif yazı

2.

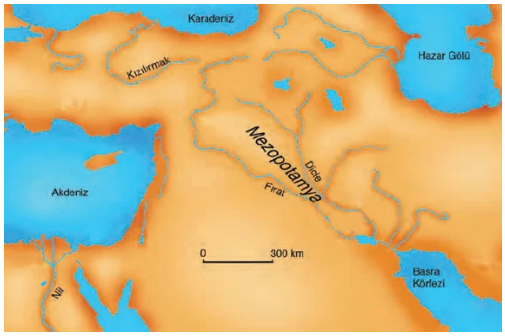

Babiller, yukarıdaki haritada gösterilen Mezopatamya denilen bölgedeki Fırat Nehri kenarında kurulmuş bir uygarlıktır.

Babillerin hüküm sürdüğü bu toprakların üzerinde günümüzde hangi devlet bulunmaktadır?

A) Irak
B) Kanada
C) İngiltere
D) Avustralya

3.

Babiller krallıkla yönetilirdi. En önemli kralarından biri, tarihte ilk anayasa olarak kabul edilen kendi adını verdiği yasaları yapmış ve uygulamıştır. Bu yasalara göre suç işleyenler sert şekilde cezalandırılırmıştır. Buna göre hukuk devleti anlayışının da ilk defa Babiller döneminde ortaya çıktığı söylenebilir.

Metinde geçen Babil kralı aşağıdakilerden hangisidir?

A) Patesi
B) Ziggurat
C) Hammurabi
D) Tavananna

4.

Görseldeki tablo, Hollandalı ressam, Maarten van Heemskerck tarafından çizilen Babil'in Asma Bahçeleri tablosudur.

Yalnızca bu tablodan yola çıkarak Babillerin;

I. tarım,
II. mimari,
III. ticaret,
IV. madencilik

konularından hangileri bakımından ileri düzeyde oldukları söylenebilir?

A) Yalnız III
B) Yalnız IV
C) I ve II
D) III ve IV

5. Ege'nin kıyı kesimleri eski çağlarda İyonya olarak bilinirdi.

Buna göre aşağıdakilerden hangisi İyonlardan günümüze kalan önemli eserler arasında yer almaz?

A)

Keops Piramidi

B)

Artemis tapınağı

C)

Efes Antik Tiyatrosu

D)

Celsus (Selsus) Kütüphanesi

6.

İyonların belli bir başkenti yoktur. Şehir devletleri hâlinde yaşamışlardır. En ünlü şehir devletleri ise günümüzde görseldeki gibi kalıntıların olduğu Efes ve Milet'tir. (İzmir)

İyonların bu şehir devletlerine ne ad verilir?

A) Site B) Polis C) Karum D) Gordion

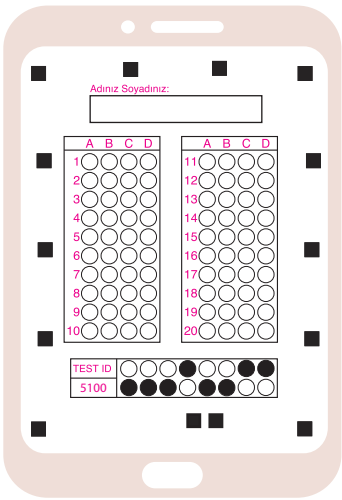

1. I. Doğada insan eli değmeden oluşan, gezilip görülebilecek eşsiz güzellikteki yerler ve unsurlar doğal varlık olarak nitelendirilir.

II. Türkiye doğal varlıklar bakımından oldukça zengindir.

III. Doğal varlıklar kendiliğinden oluşur, insanlar tarafından bu varlıklar sonradan keşfedilir.

IV. Bazı doğal varlıklar insan aklı ve tekniğinin sonucunda oluşurlar.

Yukarıdaki metinde numaralandırılan cümlelerden hangisinde bir hata yapılmıştır?

A) I B) II C) III D) IV

2.

UNESCO tarafından Dünya Mirası Listesi'ne alınan Göbeklitepe, son dönemde dünyanın gündemine oturmuş durumda. İnsanlığın inşa ettiği ilk tapınak olma özelliği taşıyan alan, tarihin de yeniden yazımına neden oldu. Bilinen en eski yerleşim yerinin inşa edildiği bölge, turizme de kazandırılmıştır. (Genel Ağ haberinden uyarlanmıştır.)

Yukarıdaki Genel Ağ haberinde açıklanan Göbeklitepe aşağıdaki sınıflandırmalardan hangisine dahil edilebilir?

A) Tarihî mekân B) Doğal varlık
C) Tabiat parkı D) Tarihî nesne

3. Aşağıda verilen görsellerden hangisi bir doğal varlık olarak kabul edilemez?

A)

Pamukkale travertenleri

B)

Manyas Kuş Cenneti

C)

Sümela Manastırı

D)

Uzungöl

4. Nevşehir ilinde yer alan doğal bir varlıktır. Yağmur ve sel sularının volkanik araziyi şekillendirmesiyle oluşmuştur. Her yıl yurt içinden ve yurt dışından sayısız turistin ilgi odağı olmakta ve ekonomiye katkı sağlamaktadır.

Bu doğal varlık aşağıdakilerden hangisidir?

A)

B)

C)

D)

5.

- Geçmiş uygarlıklardan kalan kalıntı ve eserlere …I…..denir.
- Geçmişten bizlere kalan ve tarihî değer taşıyan eşyalar …..II…olarak adlandırılır.
- Geçmişte yaşamış insan topluluklarına ait kalıntıların bulunduğu yapı ve alanlara …III…..adı verilmektedir.

Yukarıdaki açıklamalarda boş bırakılan yerlere hangi kavramlar getirilmelidir?

	I	II	III
A)	tarihî mekân	tarihî eser	tarihî nesne
B)	tarihî eser	tarihî nesne	tarihî mekân
C)	tarihî nesne	tarihî mekân	tarihî eser
D)	tarihî eser	tarihî mekân	tarihî nesne

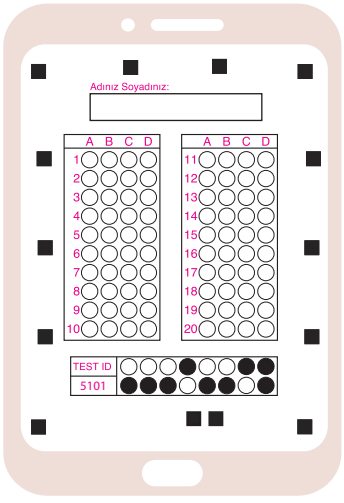

1. Arkeolojik kazılar sonucu bulunan eşyalar tarihî nesnelere örnektir. Tarihî nesneler taşınabilir oldukları için müzelerde koruma altına alınır. Bu tür nesneleri görmek isteyenler müzeleri ziyaret edebilir.

Metinde geçen konuya aşağıdakilerden hangisi örnek olarak <u>gösterilemez</u>?

A)

B)

C)

D)

2.

Galata Kulesi, İstanbul ilinde yer alan tarihî bir eserdir.



Malabadi Köprüsü, Diyarbakır ilinde yer alan tarihî bir eserdir.

Yukarıda verilen görsellerden yola çıkarak tarihi eserler hakkında aşağıdakilerden hangisi <u>söylenemez</u>?

A) Geçmişte yaşamış uygarlıklar hakkında bilgi verirler.

B) Bazıları günümüzde halen kullanılmaktadır.

C) Ait oldukları ülkenin önemli turizm değerleridir.

D) Özel olarak korunma altına alınmamışlardır.

3. Turizm faaliyetleri bir yöredeki ekonomik faaliyetleri canlandırır.

Aşağıdakilerden hangisi, söz konusu yörede turizme paralel olarak gelişmesi beklenen bir etkinlik <u>değildir</u>?

A) Ticaret

B) Haberleşme

C) Tarım

D) Ulaşım

4.

Dinlenme, eğlenme, yeni yerleri görme, tanıma vb. amaçlarla geziye çıkan görseldeki gibi insanlara turist adı verilir.

Bu insanlar hakkında aşağıdakilerden hangisini söylemek yanlış olur?

A) Her yıl çok sayıda insan turistik faaliyet yapmaktadır.

B) Gittikleri ülkelerdeki endüstri tesislerini ziyaret ederler.

C) Önemli bir kısmı gittikleri yerleri turist rehberleri eşliğinde gezerler.

D) Gezdikleri yerler hakkında bilgi sahibi olur ve kültürel birikimlerini artırırlar.

5.

Van'ın Gevaş ilçesi sınırları içindeki Akdamar Adası'nda yer alan görseldeki Akdamar Kilisesi tarihî bir eserdir. 2007 yılında geçirdiği restorasyon çalışması sonucunda "Anıt Müze" olarak hizmet vermektedir. Yapımında kullanılan kızıl andezit taşı kiliseye ayrı bir güzellik katmaktadır.

Yukarıdaki metinde altı çizili olan kavram hangi anlama gelir?

A) Tarihi eserleri ücretsiz olarak sergilemek

B) Tarihi eserleri aslına uygun olarak onarmak

C) Bir tarihi eseri turizm alanı olarak ilan etmek

D) Yurt dışında bulunan bir tarihi nesneyi ülkeye getirmek

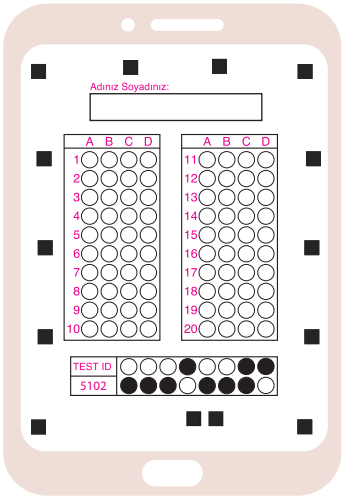

1.

UNESCO, Hititler'i Dünyaya Tanıtacak

Dünya Miras Listesi'nde yer alan ve her yıl on binlerce yerli ve yabancı turisti ağırlayan Hitit uygarlığı'nın başkenti Hattuşa'da, turizm sezonu törenle açıldı. Dünyanın 9 harikası arasında gösterilen ve dünya mirası kabul edilen kenti bu yıl çoğunluğu yabancı olmak üzere 70 bin turistin ziyaret etmesi bekleniyor. Hattuşa için bu yıl UNESCO ile Kültür ve Turizm Bakanlığı iş birliği yaparak dünyaya tanıtılması sağlanacak.

https://basin.ktb.gov.tr/TR

Görseldeki Türkiye'nin önemli tarihi ve kültürel varlığının günümüzde hangi ilimiz sınırları içinde yer aldığı söylenebilir?

A) Sinop
B) Çorum
C) Antalya
D) Trabzon

2. Ülkemiz coğrafi konumu itibarıyla turizm potansiyeli açısından önemli özelliklere sahiptir.

Buna göre Türkiye'de aşağıdaki turizm değerlerinden hangisi ön plana çıkar?

A) Akarsu turizmi
B) Yaz(deniz) turizmi
C) Sağlık turizmi
D) Termal turizmi

3. Türkiye arkeolojik ve kültürel zenginliklerinin yanı sıra doğal güzellikleriyle de çok fazla sayıda turizm değerine sahiptir. Buna göre turizm değerleri doğal ve beşerî faktörlere bağlı olarak ikiye ayrılabilir.

Aşağıdaki açıklamalardan hangisi Türkiye'nin beşeri faktörlere bağlı olarak oluşan turizm değerleridir?

A) Tarihi yerleşmeler, tarihi eserler ve müzeler zengin bir kültür birikimine sahip olan ülkemizin önemli kaynaklarıdır.
B) Özellikle yaz (deniz) turizminin yaygın olduğu Ege ve Akdeniz kıyılarında yıllık sıcaklık ortalamaları 15-20 °C arasında değişir.
C) Kar örtüsü ve yer şekillerine bağlı olarak bazı dağlarımız kış turizm merkezleri olarak önemlidir.
D) Akarsularımız ise çeşitli çağlayanlar (Düden, Manavgat, Kurşunlu vb.) ile görsel açıdan ve son yıllarda gelişen rafting sporları (Çoruh nehrinde olduğu gibi) açısından ilgi çekmektedir.

4.

Görselde Nevruz bayramına ait kutlamalar gösterilmiştir.

Bu bayram hakkında aşağıdakilerden hangisi <u>söylenemez</u>?

A) Nevruz Bayramı "baharın müjdecisi" olarak bilinir.
B) Nevruz bayramında insanlar bir arada halk oyunları oynar.
C) Nevruz, her yıl 21 Mart tarihinde kutlanan dini bir bayramımızdır.
D) Nevruz'un, Anadolu'da ve Orta Asya'da köklü ve zengin bir kültürel geçmişi bulunmaktadır.

5.

Yaz - kış üzerinde kar eksik olmayan yüksek dağlarıyla ve bu dağlarda kurulan kayak tesisleriyle Türkiye önemli bir kış turizm merkezidir.

Aşağıda bu turizm merkezlerimizden bazılarının bulunduğu iller eşleştirilmiştir.

I. Erciyes Turizm Merkezi – KAYSERİ
II. Palandöken Turizm Merkezi – ERZURUM
III. Sarıkamış Turizm Merkezi – KARS
IV. Uludağ Turizm Merkezi – ÇANKIRI

Bu eşleştirmelerden hangisinin yanlış olduğu söylenebilir?

A) I B) II C) III D) IV

6.

Üç tarafı denizlerle çevrili ülkemizin turizme elverişli koylar ve körfezlerinde bulunan ince kumlu plajları, deniz suyu sıcaklığının uygun olması ve uygun iklimi ile özellikle Akdeniz ve Ege kıyılarında görseldeki deniz turizminin gelişmesini sağlamıştır.

Bu tür kıyılara aşağıda verilen yerlerden hangisi örnek olarak gösterilemez?

A) Antalya (Kemer) B) Muğla (Bodrum)
C) Aydın (Didim) D) Trabzon (Akçaabat)



1.

2023 yılı hedefi 46 milyon turist'

Bursa Turizm Çalıştayı Düzenleme Kurulu Başkanı dünyada 944 milyar dolarlık bir turizm pastası olduğunu ve Türkiye'nin bu pastadan ancak yüzde 2,5 pay alabildiğini söyledi. Başkan, turizmin 52 sektörü besleyen bir alan olduğunu ve 2018 yılında turizmin 3,5 milyon kişiye istihdam sağladığını belirtti. Türkiye`nin 2023 hedefi 46 milyon turist ve 50 milyar dolar gelir elde etmektir. AB`ye üyeliğimiz kabul edilirse 2023 yılında hedefin 63 milyon turist ve 86 milyar dolar gelir olduğunu ifade etti.

Genel Ağ haberinden düzenlenmiştir.

Genel Ağ haberinde geçen Türkiye Turizm Stratejisi (2023) göre, ülkemizin doğal, kültürel, tarihî ve coğrafi değerlerinin koruması ve bu denge içerisinde kalkınması hedeflenmiştir. Bununla beraber ülkemizde yaygın olan kıyı turizminin yanı sıra alternatif turizm imkânlarının geliştirilmesiyle uluslararası turizm gelirlerinden alacağı payın artırılması hedeflenmektedir.

Aşağıdakilerden hangisi bu hedefleri gerçekleştirmeye yönelik faaliyetlerden değildir?

A) Turizmi tüm yıla yayarak çeşitlendirmek
B) Turistik tesislerin sayısını ve kapasitesini artırmak
C) Doğal güzelliklere sahip alanları yerleşmeye açmak
D) Uluslararası fuarlarda tanıtım etkinliklerine ağırlık vermek

2. Türkiye, müzeler yönünden çok zengindir. Ülkemiz topraklarında doğup gelişen çeşitli kültür ve medeniyetlere ait tarihî ve arkeolojik yapıtlar, 100'ü aşkın müzede sergilenmektedir.

Bu müzelerin aşağıdaki illerinin hangisinde toplandığı söylenemez?

A) İstanbul
B) Ankara
C) İzmir
D) Iğdır

3. Turizm faaliyetleri bir yöredeki ekonomik faaliyetleri canlandırır.

Aşağıdakilerden hangisi, söz konusu yörede turizme paralel olarak gelişmesi beklenen bir etkinlik değildir?

A) Ticaret
B) Haberleşme
C) Madencilik
D) Ulaşım

4.

- Doğa ve tarihin bütünleştiği bir yerdir. Volkanik kayaçlar üzerindeki aşınım şekilleridir. Bu yer şekillerinin içlerine oyulmuş tarihî kiliseler vardır..
- Ağrı – Doğu Beyazıt'ta bulunan 1685 yılında yapımına başlanan saray Osmanlı mimarisinin en belirgin anıtlarından biridir.
- 2150 m yükseklikteki bir dağ üzerinde, yüksekliği 10 metreyi bulan büyüleyici heykelleri ile tanınır. UNESCO Dünya Kültür Mirası'nda yer almaktadır.

Yukarıdaki açıklamalarda, Türkiye'nin turizm değerlerinden hangisinin tanıtımına yer verilmemiştir?

A) Pamukkale Travertenleri'nin
B) Nemrut Heykelleri'nin
C) Peri Bacaları'nın
D) İshak Paşa Sarayı'nın

5. Dünya miras eserlerinin bir kısmı doğal, bir kısmı kültürel, bir kısmı da doğal miras alanıdır. Aşağıdaki görsellerde UNESCO tarafından dünya miras listesine dâhil edilmiş bazı varlıklarımız verilmiştir.

Bunlardan hangisi hem doğal hem de beşeri olduğu için karma miras alanıdır?

A)

Safranbolu Evleri

B)

Selimiye Cami

C) 

Divriği Ulu Cami ve Külliyesi

D)

Pamukkale Travertenleri ve Hierapolis Antik Kenti

6.

Dinî bayramlarda aile bireyleri bayramlaşır; akrabalar, komşular, arkadaşlar ziyaret edilir. Büyükler ziyaret edilerek elleri öpülür. Bayramlarda sofralar kurulur, akraba ve komşularla bir arada yemekler yenilir. Birbirine dargın insanlar barışır. Uzun süre birbirini görmeye fırsat bulamayanlar bayramlarda birbirlerini ziyaret eder. Eve gelen misafirlere ikramlarda bulunulur.

Bu tür günlere;

I. Kurban,

II. Ramazan,

III. Cumhuriyet

bayramlarından hangileri dahil edilebilir?

A) Yalnız I B) Yalnız III C) I ve II D) II ve III



1.

I. Binlerce yıllık geçmişe sahip olması ve birçok medeniyete ev sahipliği yapması nedeniyle ülkemizde kültürel özellikler çeşitlilik göstermemektedir.

II. Bir toplumda nesilden nesile aktarılarak yaşatılan gelenek, görenek, inanış, düşünce ve sanat varlıklarının tümüne kültür adı verilir.

III. Yemekler, halk oyunları, mimari yapılar, geleneksel el sanatları, kıyafetler, halk ozanları ve türküler ülkemizin kültürel özelliklerini oluşturan unsurlara birer örnektir.

IV. İnsanın kültürel mirasa sahip çıkması, çevreye ve doğaya karşı saygılı olup onları koruması ve bu açıdan çevresini bilinçlendirmesi de bir vatan hizmetidir.

Yukarıda verilen açıklamalardan hangisinde bir <u>hata</u> yapılmıştır?

A) I B) II C) III D) IV

2. Yaşadığımız yerdeki kültürel özellikler, ülkemizin bir başka yerindeki kültürel özelliklere benzeyebilir veya bu yerdeki kültürel özelliklerden farklı olabilir.

Bu durumun oluşmasında;

I. iklim şartları,

II. yeryüzü şekilleri,

III. ekonomik faaliyetler

gibi faktörlerden hangileri etkilidir?

A) Yalnız I B) Yalnız III

C) I ve II D) I, II ve III

3. Türk mutfağı, yemek çeşitliliği bakımından dünyanın en zengin mutfaklarından biri olarak kabul edilir. Bu durumun sebebi ilden ile çeşitlilik gösteren yemeklerimizin olmasıdır.

Görselde verilen insanlar Türk kültürüne ait yemekler hazırlayacaklardır.

Bu kişilerin yemek listesinde aşağıdakilerin olması <u>beklenemez</u>?

A) Hamburger

B) Ali Nazik kebabı

C) Yuvalama çorbası

D) Zeytinyağlı biber dolması

4.

I. Kendine özgü hareketleri olan ve genellikle müzik eşliğinde oynanan oyunlara "halk oyunu" denir.

II. Ülkemizin farklı yörelerinde oynanan halk oyunları birbirinden farklılık gösterir.

III. Halk oyunları genellikle tek kişi tarafından kendi kendine hareket edilerek oynanır.

IV. Halk oyunları; insanların sosyalleşmesine, kendilerini toplum içinde ifade etmesine, millî birlik ve beraberliklerinin kuvvetlenmesine önemli katkılar sağlar.

Yukarıda verilen numaralandırılmış cümlelerden hangisinde bir <u>hata</u> yapılmıştır?

A) I B) II C) III D) IV

Ülkemizde balıkçılık denilince birçok insanın aklına bu yöre gelmektedir. Bu yörede en çok avlanan balık türlerinden biri hamsidir. Bu yüzden hamsi ile oldukça lezzetli yemekler yapılmaktadır. Hamsili pilav, hamsi buğulama, hamsi tava bunlardan bazılarıdır. Ayrıca yörede bol miktarda mısır yetiştirildiğinden ekmek yapımında da genellikle mısır unu kullanılmaktadır.

5. ve 6. soruları bu parçaya göre çözünüz.

5. **Bu yöre haritada işaretlenen illerden hangisini kapsamaktadır?**

A) I B) II C) II D) IV

6. **Bu yöreye ait olan ve genellikle kemençe müziği eşliğinde oynanan halk oyunu aşağıdakilerden hangisidir?**

A)

B)

C)

D)

7. Bir toplumun nesilden nesile aktarılan alışkanlıklarına, davranışlarına ve yaşam tarzlarına gelenek ve görenek adı verilir. Her toplumun kendine özgü gelenek ve görenekleri mevcuttur.

Buna göre aşağıdakilerden hangisi Türk kültürüne ait, yüzyıllar öncesinden beri süregelen gelenek ve göreneklerimiz arasında sayılamaz?

A) Kız isteme B) Yılbaşı kutlama

C) Hasta ziyaret etme D) Büyüklerin elini öpme

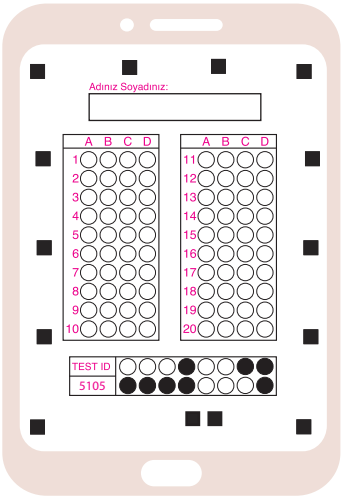

1. Her yıl ülkemizde büyük coşkuyla kutlanan millî bayramlarda bir araya gelerek birlik ve beraberliğimizi milletçe gösterme imkânı buluruz.

Bu bayram günleri hakkında aşağıdakilerden hangisi <u>söylenemez</u>?

A) Millî bayram günlerinde insanlar pikniğe giderek baharın gelişini kutlar.

B) Okullarda o günün anlam ve önemini belirten programlar düzenlenir, sınıflar süslenir.

C) Millî bayramlarımız, Kurtuluş Savaşı yıllarında kazandığımız başarıları simgelemektedir.

D) Bu günleri kutlarken ülkemizi düşman işgalinden kurtaran atalarımızın başarı ve kahramanlıklarını anarız.

2.

23 Nisan Ulusal Egemenlik ve Çocuk Bayramı millî bayramlarımızdan biridir.

Aşağıda verilen bayramlardan hangisi bu milli bayramımız ile aynı grupta <u>yer almaz</u>?

A) 30 Ağustos Zafer Bayramı

B) 06 Mayıs Hıdırellez Bayramı

C) 29 Ekim Cumhuriyet Bayramı

D) 19 Mayıs Atatürk'ü Anma, Gençlik ve Spor Bayramı

3.

UNESCO tarafından Somut Olmayan Dünya Kültürel Miras listesinde yer alan ve bu yıl 479. kez gerçekleştirilecek Uluslararası Manisa Mesir Macunu Festivali kapsamında geleneksel "mesir macunu karma" töreni gerçekleştirildi. Manisa Valisi Ahmet Deniz ve Mesir Tertip Komitesi üyelerince Cumhuriyet Meydanı'ndaki Atatürk ve Milli Egemenlik Anıtı'na çelenk konuldu, saygı duruşunda bulunuldu, İstiklal Marşı okundu.

https://www.aa.com.tr/tr/kultur-sanat/

Bu tür şenlikler hakkında aşağıdaki ifadelerden hangisi <u>yanlıştır</u>?

A) Geleneksel olarak kutlanırlar.

B) Dinî ve millî bayramlarımızdandırlar.

C) Kültürel zenginliğimizi yansıtırlar.

D) Kültürel ögelere dahil edilirler.

4. Günümüzde bayramlar tatil olarak değerlendirilmekte; yüz yüze bayramlaşmak yerine telefon açılarak veya kısa mesaj yollayarak bayramlaşılmaktadır.

Buna göre aşağıdaki yorumlardan hangisi <u>yanlış</u> olur?

A) Bazı kültürel unsurlar zaman içinde yerini yepyeni değerlere bırakabilir.

B) Sosyal medyanın devreye girmesi kültürel unsurların sürekliliğini artırmıştır.

C) Kültür, geçmişten günümüze aktarılırken zaman içinde değişimlere uğrayabilir.

D) Şehir hayatının yaygınlaşması ve sanayinin gelişmesi kültürel değişimleri hızlandırmıştır.

5.

TÜRKÇESİ VARKEN...	
• START ALMAK	➜ BAŞLAMAK
• CENTER	➜ MERKEZ
• RELAX OLMAK	➜ RAHATLMAK
• E-MAİL	➜ E- POSTA
• KOMİNİKASYON	➜ İLETİŞİM
• CV	➜ ÖZGEÇMİŞ
• OKEY	➜ TAMAM
• TREND	➜ EĞİLİM
• SPONTENE	➜ KENDİLİĞİNDEN
• LİNK	➜ BAĞLANTI

Tabloda verilenler gibi yabancı kelimelerin yerine Türkçe karşılıklarını kullanmaya özen göstermeliyiz.

Bu durumun nedenleri ile ilgili olarak aşağıdakilerden hangisi <u>söylenemez</u>?

A) Çünkü; dilimizin zenginliği artmaktadır.

B) Çünkü; dil, kültürün önemli unsurlarından biridir.

C) Çünkü; insanlar kültürlerini dil yoluyla gelecek nesillere aktarırlar.

D) Çünkü; bu durum dilimizin özünü kaybetmesine ve gelecek nesillere yanlış aktarılmasına neden olabilmektedir.

6.

Yeni doğan bir bebeği görmeye gitme, asker uğurlama, nişan ve düğün merasimleri yapma gelenek ve göreneklerimiz arasında sayılabilir.

Bu tür uygulamalar hakkında aşağıdakilerden hangisi <u>söylenemez</u>?

A) Toplum tarafından kabul görüp yaşatılan değerlerdir.

B) Toplumları bir arada tutan millî ve manevi değerlerdendir.

C) Yazılı hukuk kuralları olduklarından uymayanlar cezalandırılır.

D) Toplumda birlik ve beraberliğin; huzur ve barış ortamının oluşmasında, sürdürülebilmesinde etkilidir.

7.

Türk mutfağı, yemek çeşitliliği bakımından dünyanın en zengin mutfaklarından biri olarak kabul edilir. Bu durumun sebebi ilden ile çeşitlilik gösteren yemeklerimizin olmasıdır.

Zeytin tarımının yapıldığı yerlerin iklim şartları dikkate alınırsa, ülkemizde zeytinyağı ile yapılan zeytinyağlı börülce, zeytinyağlı enginar, zeytinyağlı biber dolması, gibi yemeklerin;

I. Ege kıyı kesimi,

II. Akdeniz kıyı kesimi,

III. Doğu Anadolu Bölgesi

gibi yerlerden hangilerinde yaygın olduğu söylenebilir?

A) Yalnız I B) Yalnız III C) I ve II D) II ve III



1. Et yemekleri ile ünlü şehirlerimizden lahmacun, tepsi kebabı, Ali Nazik kebabı gibi yemek türleri ülkemize yayılan meşhur lezzetlerdir. Sadece ülkemizde değil, yurt dışında da bilinen ve özellikle ülkemize gelen yabancı turistler tarafından da çok sevilen bu yemek türleri ve baklava çeşitleri hafta sonu bu şehirlere günlük uçak seferleri bile düzenlenmesine neden olmuştur.

Yukarıdaki metinde geçen şehirlerimiz arasında aşağıdakilerden hangisi yer almaz?

A) Hatay
B) Sinop
C) Şanlıurfa
D) Gaziantep

2.

Tel ve levha hâline getirilebilen bir madenin görseldeki gibi çekiçle dövülmesi sonucu çeşitli eşyalar elde edilir. Bu el sanatı özellikle Tokat ve Muğla çevresinde yaygındır. Eskiden günlük eşyalar üretilirken, günümüzde daha çok süs eşyası yapımında kullanılır.

Yukarıdaki açıklamada geçen maden türü aşağıdakilerden hangisidir?

A) Demir
B) Bakır
C) Krom
D) Çelik

3.

Ege yöresine ait olan bir halk oyunudur. Yiğitliği, mertliği ve cesareti simgeler. Tek kişi tarafından oynandığı gibi birkaç kişinin çember şeklinde bir araya gelmesiyle toplu hâlde de oynanabilir.

Zaman zaman Mustafa Kemal Atatürk'ün de oynadığı bu halk oyunu aşağıdakilerden hangisidir?

A) Zeybek
B) Horon
C) Halay
D) Atabarı

4.

Özel olarak hazırlanmış suyun üzerine görseldeki gibi fırça ve çeşitli aletler yardımıyla istenilen desenlerin oluşturulması ve bunların kâğıt üzerine aktarılmasıyla yapılır. Osmanlı Devleti döneminde önemli bir iş kolu olan bu sanat, eski önemini yitirmiştir. Günümüzde insanlar bu sanatla hobi amaçlı uğraşmaktadır.

Metinde anlatılan geleneksel el sanatımız aşağıdakilerden hangisidir?

A) Halıcılık
B) Bakırcılık
C) Ebru sanatı
D) Çinicilik sanatı

5.

Çinicilik sanatı günümüz Türkiye'sinde de önemini korumayı başarmıştır. Tarihî cami ve türbelerin duvarlarında, köşk ve sarayların iç ve dış cephelerinde çinicilik sanatının incelikleri görülebilir. Bunun yanında günümüzde vazolara, tabaklara, fayanslara işlenen motifler ile yapılan çini eserler, çeşitli mekânların süslenmesinde de kullanılır.

Yukarıda verilen metindeki el sanatımız ile ilgili akla ilk gelen şehrimiz aşağıdakilerden hangisidir?

A) Yozgat B) Kütahya C) Erzurum D) Gümüşhane

6.

Ülkemiz görseldeki halı ve kilim dokumacılığı sanatları bakımından oldukça zengin bir kültürel birikime sahiptir.

Türk kültüründe bu el sanatı ve önemi hakkında aşağıdaki yargılardan hangisi <u>yanlış</u> olur?

A) Ülkemizde halı yapımında genellikle doğal kök boyalar kullanılır.

B) Türkler Anaodolu'da İslamiyetle birlikte halıcılık sanatına başlamışlardır.

C) Tarihte bilinen ilk Türk halısı MÖ 3. yy'dan kaldığı tahmin edilen Pazırık halısıdır.
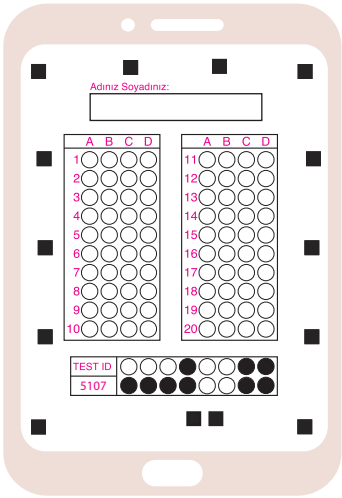
D) Türk halılarında genellikle geometrik motifler, doğa tasvirleri, çiçek motifleri işlenir.